Brüche 1 LÖSUNG

(Für mehr Nachhaltigkeit: Vergleicht die Lösungen am Bildschirm und druckt diese nicht aus.)

1. Welcher Bruch gehört zu welchem Bild? Verbinde sie.

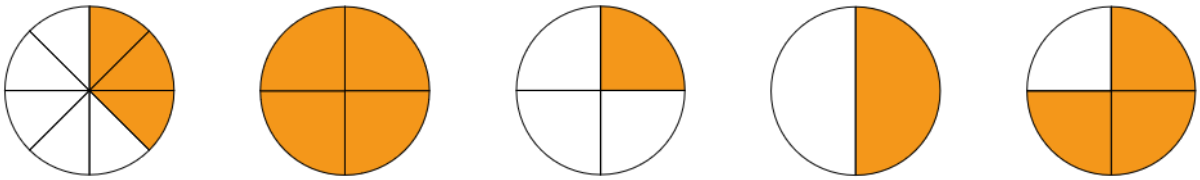

$\frac{1}{4}$ $\frac{3}{8}$ $\frac{3}{4}$ $\frac{4}{4}$ $\frac{1}{2}$

2. Jeweils zwei Brüche zeigen den gleichen Anteil. Verbinde die Paare.

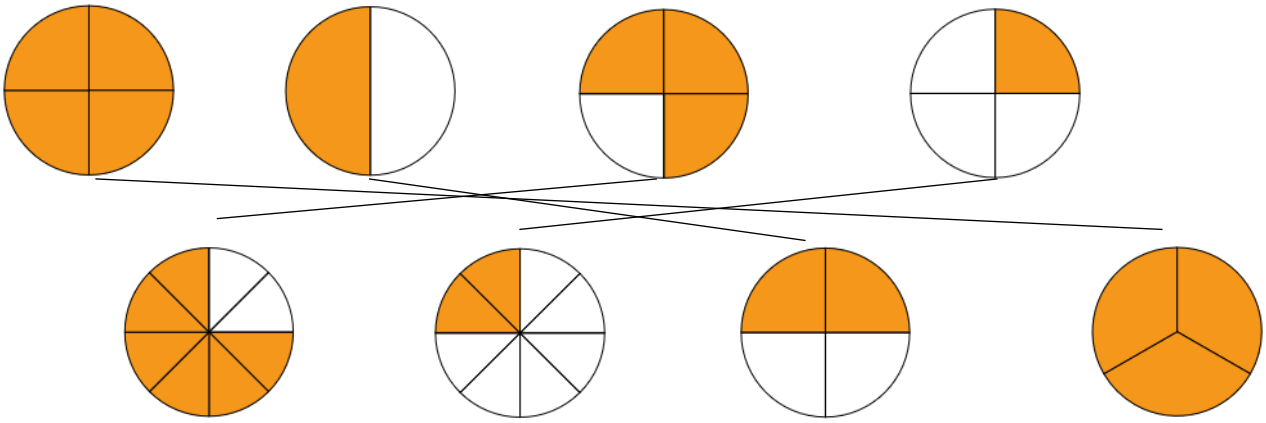

3. Male die Brüche richtig aus.

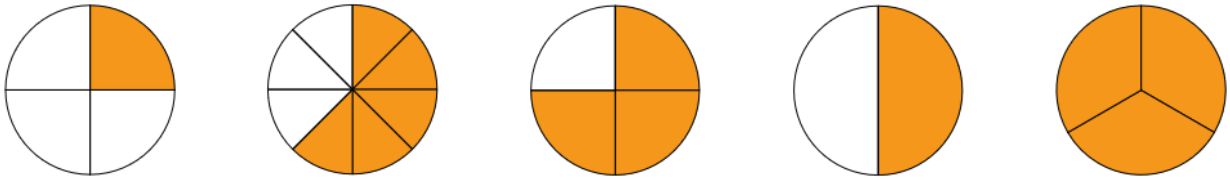

$\frac{1}{4}$ $\frac{5}{8}$ $\frac{3}{4}$ $\frac{1}{2}$ $\frac{3}{3}$

© www.uebungskoenig.de